

Az mı, Çok mu, Eşit mi?

Adım Soyadım: ..... No: ☐☐☐☐ Tarih: .....

Öğretmen okur: Lale ile Ali bahçede elma topluyor, kelebek sayıyor. İkisi de "Benimki daha çok!" diyor. Kim haklı? Onlara yardım et.

1 Elmaları say

Öğretmen okur: Soldaki kutu Lale'nin, sağdaki kutu Ali'nin. İki kutuyu da say. Sayıyı yanına yaz.

1  ☐

2  ☐

2 Kelebekleri say

Öğretmen okur: Soldaki kutu Lale'nin, sağdaki kutu Ali'nin. İki kutuyu da say. Sayıyı yanına yaz.

1 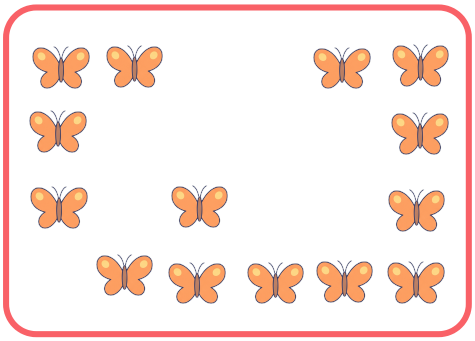 ☐

2 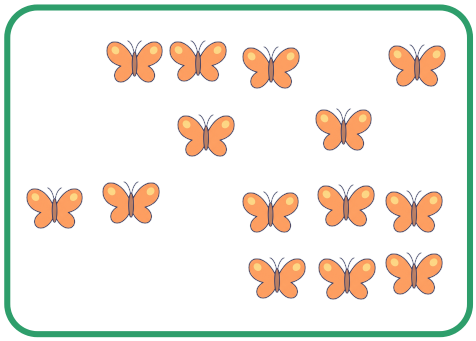 ☐

3 Karşılaştır

Öğretmen okur: Soruyu dinle. Doğru cevabın yanındaki yuvarlağı boya.

1 Kimin elması daha çok?

- ◯ A) Lale
- ◯ B) Ali
- ◯ C) Eşit

2 Kimin kelebeği daha çok?

- ◯ A) Lale
- ◯ B) Ali
- ◯ C) Eşit

Az mı, Çok mu, Eşit mi?

Adım Soyadım: ..... No: ☐☐☐☐ Tarih: .....

4 Kim haklı?

Öğretmen okur: **1. ve 2. görevdeki kutulara yeniden bak. Lale ile Ali'nin sözlerini dinle. Doğruysa D, yanlışsa Y kutusunu işaretle.**

1. Lale: "Benim elmalarım daha büyük. O hâlde benim elmam daha çok." ☐ D ☐ Y
2. Ali: "Kelebeklerimiz eşit." ☐ D ☐ Y
3. Lale: "Benim elmam Ali'ninkinden daha az." ☐ D ☐ Y
4. Lale: "Ali'ye bir kelebek daha gelse yine eşit oluruz." ☐ D ☐ Y

5 Eşit olsun

Öğretmen okur: **Lale kaç şekil çizdiyse sayısı kutunun üstünde yazıyor. Ali de eşit sayıda çizecek. Sayıyı oku. Kutuya o kadar çiz.**

7 top çiz.

10 yıldız çiz.

6 Daha az olsun

Öğretmen okur: **Soruyu dinle. Doğru sayının yanındaki yuvarlağı boya.**

1. Ali'nin 8 elması var. Lale'nin elması daha az. Lale'nin kaç elması olabilir?

◯ A) 10 ◯ B) 8 ◯ C) 5

★ Kendimi değerlendiriyorum: Sana uygun yüzü boya.

☺ 😐 ☹	☺ 😐 ☹	☺ 😐 ☹
İki grubu sayarak karşılaştırabildim.	"Daha çok", "daha az", "eşit" sözlerini doğru kullandım.	İstenen kadar çizebildim.