

Oyuncak Kasaba

Adım Soyadım: ..... No: ☐☐☐☐ Tarih: .....

Defne ile Ege atık kutulardan bir oyuncak kasaba kuruyor. Ev, kule ve köprüyü incele.

A ev, B kule, C köprü.

A

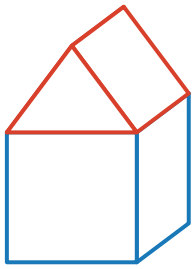

B

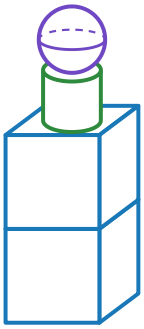

C

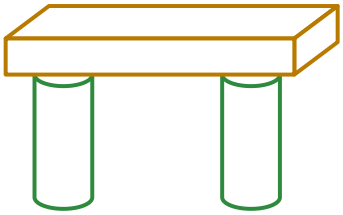

1 Cisim avı

Üç yapının hepsine bak. Kaç tane olduğunu kutulara yaz.

Küp: ☐ Silindir: ☐ Küre: ☐

2 Cisimler ve ilişkiler

Doğru seçeneği işaretle.

1. Ege iki küpü yan yana yapıştırdı. Yeni cisim hangisine benzer?

◯ A) Küre ◯ B) Silindir ◯ C) Dikdörtgen prizma

2. B kulesinde en üste neden küre konmuş olabilir?

◯ A) Üstüne başka cisim durmaz. ◯ B) Kulenin en ağır parçası. ◯ C) Düz yüzleri çok.

3. Silindir ile küpün benzer yönü hangisi?

◯ A) İkisi de her yöne yuvarlanır. ◯ B) İkisinin de düz yüzü var. ◯ C) İkisinin de köşesi yok.

Oyuncak Kasaba

Adım Soyadım: ..... No: ☐☐☐☐ Tarih: .....

3 Evin çatısı

Doğru seçeneği işaretle.

1) A evinin çatısı hangi cisimdir?

◯ A) Küre ◯ B) Üçgen prizma ◯ C) Silindir

4 Ege haklı mı?

Ege'nin sözünü oku. Doğru mu, hatalı mı? İşaretle ve nedenini yaz.

Ege: "Köprünün ayaklarını silindir yerine küre yaparsam köprü daha sağlam durur."

☐ Doğru çıkarım ☐ Hatalı çıkarım

Çünkü .....

5 Kasabaya yeni yapı

1) Kasabaya bir yapı daha ekle. En az üç farklı cisim kullan. Yapının adını ve cisimleri yaz.

.....

.....

2) Yapında hangi cismi en alta koydun? Neden?

.....

.....

İstersen yapının resmini çiz (puanlanmaz).

★ Kendimi değerlendiriyorum: Sana uygun yüzü boya.

Yapılardaki cisimleri buldum. Cisimlerin özelliklerini düşündüm. Kendi yapımı tasarladım.