

Kalem Destesi

Adım Soyadım: ..... No: ☐☐☐☐ Tarih: .....

Okulun kırtasiyesinde kalemler deste yapılıyor. Her destede 10 kalem var. Defne ile Ege kalemleri sayıyor.

Lastikle bağlı her destede 10 kalem var. Destelerin yanındaki kalemler tek tek duruyor.

A 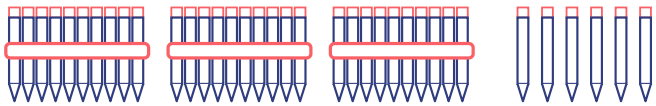

B 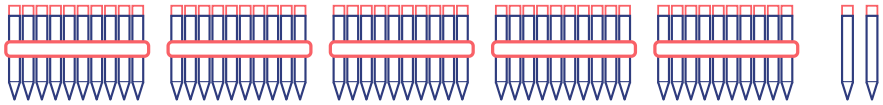

C 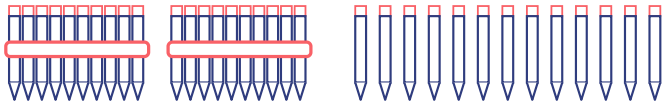

1 Deste ve tek kalem

A ve B raflarındaki desteleri ve tek kalemleri say. Kutulara yaz.

A deste: ☐ A tek kalem: ☐ B deste: ☐ B tek kalem: ☐

2 Çözümle

A rafında 36, B rafında 52 kalem var. Sayıları onluk ve birliklerine ayır.

36 = 30 + ☐ 52 = 50 + ☐

3 C rafı

C rafına bak. Doğru seçeneği işaretle.

1 C rafında 2 deste ve 13 tek kalem var. Rafta kaç kalem var?

◯ A) 213 ◯ B) 33 ◯ C) 15

Kalem Destesi

Adım Soyadım: ..... No: ☐☐☐☐ Tarih: .....

4 Defne haklı mı?

Defne'nin sözünü oku. Doğru mu, hatalı mı? İşaretle ve nedenini yaz.

Defne: "C rafındaki 13 tek kalemden bir deste daha yapabiliriz. O zaman 3 deste ve 3 tek kalem olur."

☐ Doğru çıkarım ☐ Hatalı çıkarım

Çünkü .....

5 Kural ne diyor?

Kuralı ve durumu oku. Ne olur? Sonuç satırına yaz.

Kural: 10 birlik 1 onluk eder.

Durum: Ege'nin 4 destesi ve 10 tek kalemi var.

Sonuç: .....

6 Desteyi aç

Defne'nin 4 destesi ve 1 tek kalemi var. Arkadaşına 5 tek kalem vermek için bir desteyi açtı. Kalemleri vermeden önce elinde ne var?

Deste: ☐ Tek kalem: ☐

7 Başka nasıl?

1) 45 kalem, 4 deste ve 5 tek kalemdir. Bu 45 kalemi başka iki biçimde deste ve tek kalem olarak yaz.

.....

.....

★ Kendimi değerlendiriyorum: Sana uygun yüzü boya.

☺ 😐 ☹ Desteleri ve tek kalemleri saydım.

☺ 😐 ☹ Sayıları çözümledim.

☺ 😐 ☹ Deste bozup yeniden yaptım.