Onluk ve Birlik

Adım Soyadım: ..... No: ☐☐☐☐ Tarih: .....

Lastikle bağlı her destede 10 kalem var. Destelerin yanındaki kalemler tek tek duruyor.

A 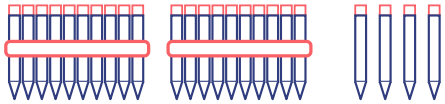

B 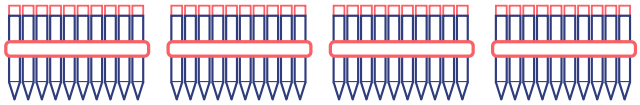

C 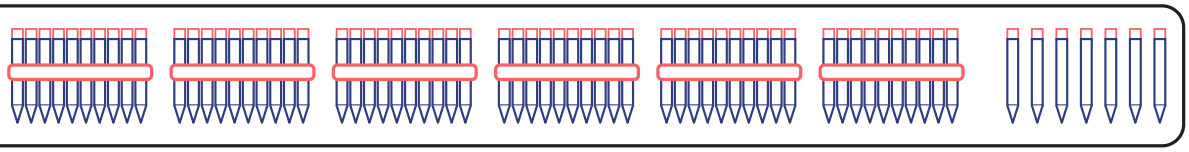

1 Deste ve tek kalem

A ve C raflarındaki desteleri ve tek kalemleri say. Kutulara yaz.

A deste: ☐ A tek kalem: ☐ C deste: ☐ C tek kalem: ☐

2 Çözümle

Sayıları onluk ve birliklerine ayır.

67 = 60 + ☐ 24 = 20 + ☐

Onluk ve Birlik

Adım Soyadım: ..... No: ☐☐☐☐ Tarih: .....

3 Onluk mu, birlik mi?

Doğru seçeneği işaretle.

1 1 deste kaç kalemdir?
- ◯ A) 1
- ◯ B) 10
- ◯ C) 100

2 3 onluk 12 birlik kaçtır?
- ◯ A) 42
- ◯ B) 312
- ◯ C) 15

3 58 sayısında kaç onluk var?
- ◯ A) 8
- ◯ B) 58
- ◯ C) 5

4 Doğru mu, yanlış mı?

Doğruysa D, yanlışsa Y kutusunu işaretle.

1 7 onluk 2 birlik 72'dir. ☐ D ☐ Y

2 40 sayısı 4 onluk 0 birliktir. ☐ D ☐ Y

3 2 onluk 11 birlik 211'dir. ☐ D ☐ Y

4 90 sayısında 9 birlik vardır. ☐ D ☐ Y

5 Onluk yap

Düşün ve kutulara yaz.

10 birlik kaç onluk eder? ☐ 3 onluk 10 birlik kaçtır? ☐

★ Kendimi değerlendiriyorum: Sana uygun yüzü boya.

Desteleri doğru saydım. Sayıları çözümledim. Onluk ve birliği karıştırmadım.