1000'e Kadar Sayılar

Adım Soyadım: ..... No: ☐☐☐☐ Tarih: .....

 yüzlük

 onluk

☐ birlik

1 yüzlük = 10 onluk = 100 birlik

1 onluk = 10 birlik

A 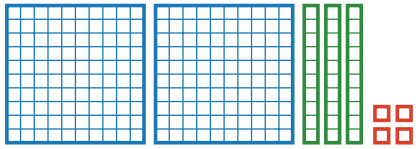

B 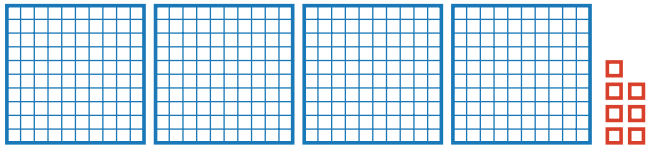

C 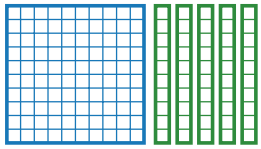

1 Bloklar hangi sayı?

Modellerin gösterdiği sayıları yaz.

A modeli: ☐ B modeli: ☐ C modeli: ☐

2 Hangisi?

Doğru seçeneği işaretle.

1 Hangisi 360 sayısını gösterir?

◯ A) 3 yüzlük ve 6 onluk ◯ B) 3 yüzlük ve 6 birlik ◯ C) 36 birlik

3 Rakamla yaz

Okunuşu verilen sayıları rakamla yaz.

beş yüz otuz iki: ☐ yedi yüz dört: ☐ bin: ☐

1000'e Kadar Sayılar

Adım Soyadım: ..... No: ☐☐☐☐ Tarih: .....

4 Sayıları oku

1) 385 sayısının okunuşunu yaz.

.....

2) 620 sayısının okunuşunu yaz.

.....

5 Doğru mu, yanlış mı?

Doğruysa D, yanlışsa Y kutusunu işaretle.

1) Yedi yüz dört sayısı 7004 diye yazılır. ☐ D ☐ Y
2) 4 yüzlük, 2 onluk ve 9 birlik 429 sayısını gösterir. ☐ D ☐ Y
3) 12 onluk 120 eder. ☐ D ☐ Y
4) Dokuz yüz doksan dokuzdan sonra gelen sayı bindir. ☐ D ☐ Y

6 Mert'in blokları

Doğru seçeneği işaretle ve nedenini yaz.

1) Mert 2 yüzlük, 13 onluk ve 5 birlik kullandı. Mert hangi sayıyı gösterdi?

◯ A) 2135 ◯ B) 335 ◯ C) 235

Çünkü .....

★ Kendimi değerlendiriyorum: Sana uygun yüzü boya.

Bloklardan sayıyı buldum. Sayıları okuyup yazabildim. Doğru ve yanlış yazılışları ayırdım.