

Mahalle Fırını

Adım Soyadım: ..... No: ☐☐☐☐ Tarih: .....

Mert, Aylin ve Defne mahalle fırınında. Fırıncı Nuran Hanım pideleri, börekleri ve ekmekleri aşağıdaki gibi kesti. Her parça bütünün ne kadarı?

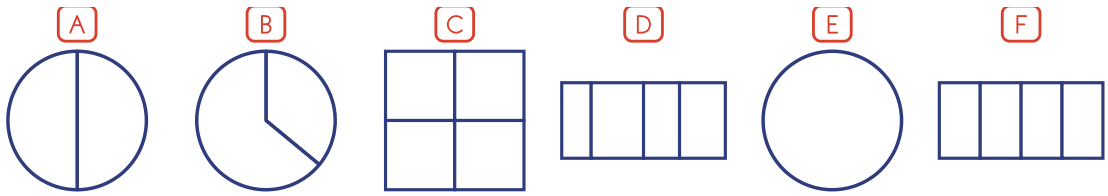

1 Eş parçalar mı?

Modellere bak. Doğruysa D, yanlışsa Y kutusunu işaretle.

1. A modeli iki eş parçaya bölünmüştür. ☐ D ☐ Y
2. B modelinin her parçası bir yarımdır. ☐ D ☐ Y
3. C modelinin her parçası bir çeyrektir. ☐ D ☐ Y
4. D modelinin her parçası bir çeyrektir. ☐ D ☐ Y

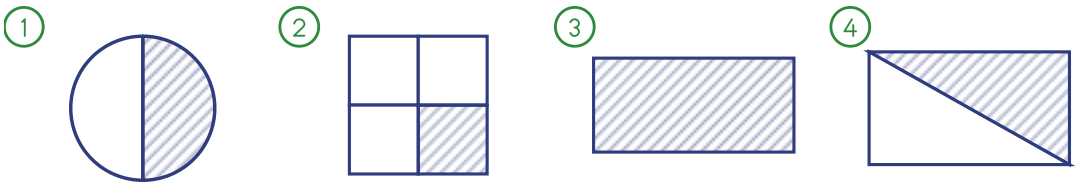

2 Taralı kısım

Her modelde taralı kısım bütünün ne kadarı? Kutuya harfini yaz. A) $\frac{1}{2}$ B) $\frac{1}{4}$ C) 1 bütün

1. model: ☐ 2. model: ☐ 3. model: ☐ 4. model: ☐

Mahalle Fırını

Adım Soyadım: ..... No: ☐☐☐☐ Tarih: .....

3 Hangisi büyük?

Aylin'in sözünü oku. Doğru mu, hatalı mı? İşaretle ve nedenini yaz.

Aylin: "Aynı büyüklükteki iki pideden çeyrek pide, yarım pideden büyüktür; çünkü 4, 2'den büyüktür."

☐ Doğru çıkarım ☐ Hatalı çıkarım

Çünkü .....

4 Mert'in pidesi

1 Mert pideyi kırmızı çizgiden ikiye böldü:

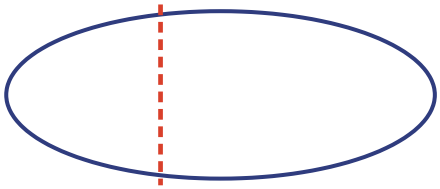

Mert: "Kardeşime yarım pide verdim, yani $\frac{1}{2}$ pide." Mert'in hatası ne? Pideyi nasıl bölmeliydi?

.....

.....

5 Defne'nin böreği

1 Defne kare tepsideki böreği 4 kişiye eşit paylaştıracak.



Kareyi 4 eş parçaya böl. Bir kişinin payını tara. Bir kişinin payı tepsinin ne kadarı? Kesirle yaz.

.....

★ Kendimi değerlendiriyorum: Sana uygun yüzü boya.

☺ 😐 ☹ Eş parçalara bölünmüş modelleri tanıdım.

☺ 😐 ☹ Yarım ve çeyreği kesirle gösterdim.

☺ 😐 ☹ Hatalı bölmeyi düzelttim.