Yarım ve Çeyrek

Adım Soyadım: ..... No: ☐☐☐☐ Tarih: .....

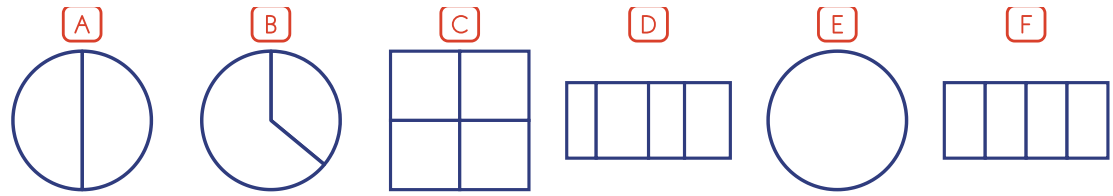

1 Eş parçalar mı?

Modellere bak. Doğruysa D, yanlışsa Y kutusunu işaretle.

1. A modeli iki eş parçaya bölünmüştür. ☐ D ☐ Y
2. B modelinin her parçası bir yarımdır. ☐ D ☐ Y
3. C modelinin her parçası bir çeyrektir. ☐ D ☐ Y
4. D modelinin her parçası bir çeyrektir. ☐ D ☐ Y

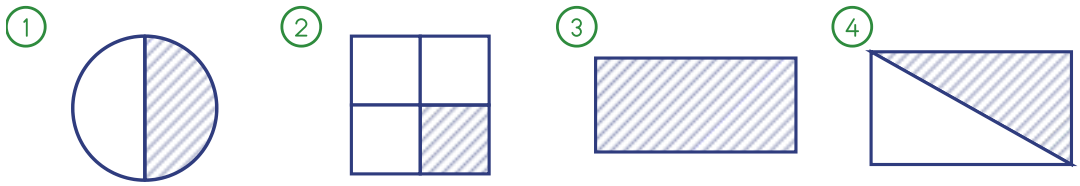

2 Taralı kısım

Her modelde taralı kısım bütünün ne kadarı? Kutuya harfini yaz. A) $\frac{1}{2}$ B) $\frac{1}{4}$ C) 1 bütün

1. model: ☐ 2. model: ☐ 3. model: ☐ 4. model: ☐

3 Karşılaştır

Doğru seçeneği işaretle.

1. Aynı büyüklükteki iki pideden hangisinin parçası daha büyüktür?

   ◯ A) Yarım pide ◯ B) Çeyrek pide ◯ C) İkisi eşit

2. Bir bütün pide kaç çeyrek pide eder?

   ◯ A) 2 ◯ B) 4 ◯ C) 1

Yarım ve Çeyrek

Adım Soyadım: ..... No: ☐☐☐☐ Tarih: .....

4 Mert'in pidesi

Doğru seçeneği işaretle. Nedenini yaz.

1) Mert pideyi kırmızı çizgiden ikiye böldü:

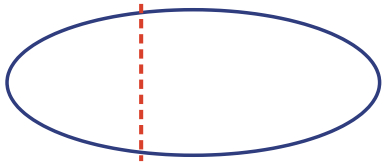

Mert'in parçaları neden yarım değildir?

◯ A) Parçalar eş değil. ◯ B) Pide yuvarlak. ◯ C) İki parça var.

Çünkü .....

5 Defne'nin böreği

1) Kare böreği 4 eş parçaya böl. Bir parçayı tara.



Taradığın parça böreğin ne kadarı? Kesirle yaz.

.....

★ Kendimi değerlendiriyorum: Sana uygun yüzü boya.

☺ 😐 ☹ Eş parçalara bölünmüş modelleri tanıdım.

☺ 😐 ☹ Yarım ve çeyreği kesirle gösterdim.

☺ 😐 ☹ Hatalı bölmeyi düzelttim.