Saatleri Okuyorum

Adım Soyadım: ..... No: ☐☐☐☐ Tarih: .....

1 Oku ve yaz

Saatleri oku, dijital saat olarak kutuya yaz. Bu saatlerin hepsi sabah saatleridir.

1 

2 

3 

4 

2 Saati kur

Dijital saatte yazan zamanı göster. Akrebi kısa, yelkovanı uzun çiz.

02.30



09.15



05.50



Saatleri Okuyorum

Adım Soyadım: ..... No: ☐☐☐☐ Tarih: .....

3 Doğru mu, yanlış mı?

Cümleleri oku. Doğruysa D, yanlışsa Y kutusunu işaretle.

1. Saat yarımı gösterirken yelkovan 6'nın üzerindedir. ☐ D ☐ Y
2. Akrep, yelkovandan daha uzundur. ☐ D ☐ Y
3. Öğleden sonra saat 3, dijital saatte 15.00 olarak yazılır. ☐ D ☐ Y
4. Saat 7.45'te akrep tam 7'nin üzerindedir. ☐ D ☐ Y
5. Yelkovan 12'den 3'e geldiğinde 15 dakika geçmiştir. ☐ D ☐ Y
6. "Beşe çeyrek var" dediğimizde dijital saatte 05.15 yazar. ☐ D ☐ Y

★ Kendimi değerlendiriyorum: Sana uygun yüzü boya.

☺ 😐 ☹ Saatleri okuyup yazabildim.

☺ 😐 ☹ Akrebi ve yelkovanı çizebildim.

☺ 😐 ☹ Doğru ve yanlışı ayırabildim.