Selin'in Fidanı

Okumadan önce: Başlığa bak. Fidanı büyütmek için neler gerekir?

Su, güneş, toprak ve bakım.

Okulda her öğrenciye bir fidan verildi. Öğretmen, "Fidanınızı evde büyütecek, her gün sulayacaksınız," dedi.

Selin fidanını penceresinin önüne koydu. İlk günler her sabah suladı. Fidanın yeni yapraklarını sevinçle izledi.

Bir hafta sonra Selin oyuna dalıp fidanını unuttu. Üç gün sonra baktığında yapraklar sararmış, toprak kupkuru olmuştu.

Selin çok üzüldü ama vazgeçmedi. Hemen su verdi, bir takvim hazırladı. Her sulamadan sonra takvime bir yıldız çizdi.

Bir ay sonra fidan boy atmıştı. Selin fidanını okula götürdüğünde öğretmeni gülümsedi: "Sorumluluk almak, sözünü tutmaktır."

1 Metinde en çok sevdiğin cümleyi yaz.

Bir ay sonra fidan boy atmıştı.

Okuduktan sonra: ☐ Sessiz okudum ☐ Sesli okudum ☐ Aileme okudum ☐ Bilmediğim sözcüklerin altını çizdim

Metni Anlıyorum

1 Soruları metne göre cevaplayınız.

1. Öğretmen öğrencilere ne verdi?

Birer fidan

2. Fidanın yaprakları neden sarardı?

Selin sulamayı unuttu.

3. Selin sorununu nasıl çözdü?

Takvim hazırladı, her gün suladı.

2 Doğru ise D, yanlış ise Y yazınız.

Y Selin fidanını hiç unutmadı.

D Selin takvime yıldız çizdi.

D Fidan sonunda boy attı.

3 Olayları oluş sırasına göre numaralayınız.

2 Selin fidanını unuttu.

3 Selin bir takvim hazırladı.

1 Öğretmen fidanları dağıttı.

4 Fidan boy attı.

4 Soruları cevaplayınız.

1. Selin'in davranışından hangi değer öğrenilir?

(A) sorumluluk B) cesaret C) cömertlik

2. Fidan bir ayda ne oldu?

A) Kurudu. (B) Boy attı. C) Kırıldı.

3. "fidan" sözcüğünün anlamı nedir?

A) uzamak B) sarı renge dönmek (C) genç ağaç

Sözcüklerin Anlamı

1 Sözcükleri anlamlarıyla eşleştiriniz.

a	fidan	a) genç ağaç
d	sararmak	b) çok kuru
b	kupkuru	c) uzamak
c	boy atmak	d) sarı renge dönmek

2 Zıt anlamlı sözcükleri eşleştiriniz.

a	kuru	a) ıslak
c	sabah	b) neşeli
b	üzgün	c) akşam
d	uzun	d) kısa

Soruyu cevaplayınız.

1. "sararmak" sözcüğünün anlamı nedir?

A) sarı renge dönmek B) uzamak C) genç ağaç

3 Evde hangi sorumlulukların var? Yaz.

Odamı toplarım, çiçekleri sularım.

4 Soruları cevaplayınız.

1. "kupkuru" sözcüğünün zıt anlamlısı?

A) sırılsıklam B) kuru C) sıcak

Zıt Anlamlı Sözcükler

Hatırla! Anlamca birbirinin karşıtı olan sözcüklere zıt anlamlı sözcükler denir: büyük – küçük, açık – kapalı, gelmek – gitmek.

1 Altı çizili sözcüklerin zıt anlamlısını yazınız.

1. Fidanın yaprakları sarardı. yeşerdi
2. Selin üzüldü. sevindi
3. Toprak kuru idi. ıslak
4. Fidan büyük oldu. küçük

Soruyu cevaplayınız.

1. "kupkuru" sözcüğünün anlamı nedir?
   A) çok kuru B) uzamak
   C) sarı renge dönmek
2. "okula" sözcüğü kaç hecelidir?
   A) 4 B) 3 C) 2

2 Zıt anlamlı sözcüklerle bir cümle yaz.

Sabah erken kalktım, akşam geç yattım.

3 Soruları cevaplayınız.

1. "açmak" sözcüğünün zıt anlamlısı?
   A) basmak B) kapamak C) koşmak
2. Hangisi zıt anlamlı değildir?
   A) okul – mektep B) ön – arka
   C) yaz – kış
3. "erken" sözcüğünün zıt anlamlısı?
   A) hızlı B) sabah C) geç

Adı Soyadı: .....

Sorumluluk Takvimim

1 Bir hafta boyunca yapacağın bir sorumluluğu seç. Takvime işaretle.

Gün	Görevim	Yaptım
Pazartesi		☆
Salı		☆
Çarşamba		☆
Perşembe		☆
Cuma		☆
Cumartesi		☆
Pazar		☆

Soruyu cevaplayınız.

1. "boy atmak" sözcüğünün anlamı nedir?

A) uzamak B) sarı renge dönmek

C) genç ağaç

2. "takvime" sözcüğü kaç hecelidir?

A) 3 B) 2 C) 4

2 Selin'e bir mektup yaz. Fidanı için ona neler önerirsin?

Sevgili Selin, fidanını ...

Adı Soyadı: .....

Türkçe Haftanın Testi

Doğru cevabın harfini yuvarlak içine alınız.

Her soru 1 puan

1. Selin fidanı nereye koydu?

A) Bahçeye B) Okula

C) Pencerenin önüne

2. "sabah" sözcüğünün zıt anlamlısı?

A) öğle B) akşam C) gün

3. Hangisi zıt anlamlıdır?

A) güzel – hoş B) cevap – yanıt

C) ıslak – kuru

4. Fidan neden sarardı?

A) Sulanmadığı için

B) Çok güneş aldığı için

C) Kesildiği için

5. "Boy atmak" ne demektir?

A) uzamak B) kurumak

C) kısalmak

6. "neşeli" sözcüğünün zıt anlamlısı?

A) sevinçli B) mutlu C) üzgün

7. Selin hangi değeri gösterdi?

A) yalancılık B) sorumluluk

C) tembellik

8. Hangisi zıt anlamlı değildir?

A) öğrenci – talebe B) alt – üst

C) iç – dış

9. "Bugünün işini yarına bırakma." sözü ne anlatır?

A) Yarın tatildir.

B) İşleri zamanında yapmalıyız.

C) Hep dinlenmeliyiz.

Puanım: ☐☐☐☐☐☐☐☐☐☐

(doğru sayısı kadar kutu boya)

Hangisi Daha Çok Alır?

Hatırla! Sıvıları bardak, kova, kaşık, sürahi gibi kaplarla ölçebiliriz. Büyük kap daha çok sıvı alır. Aynı birimle ölçersek karşılaştırabiliriz.

1 Hangisi daha çok su alır? Altına ✓ koy.

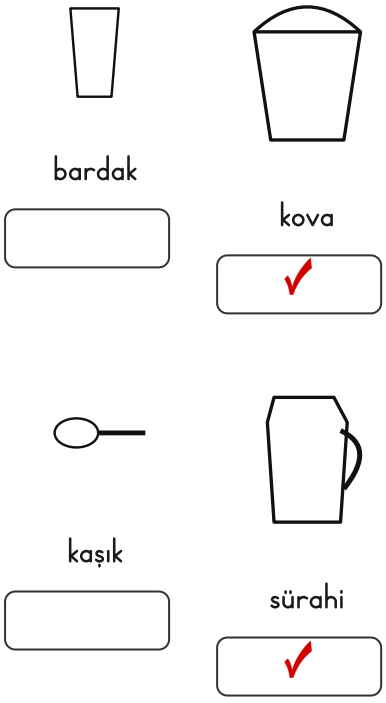

Soruyu cevaplayınız.

1. Hangisi daha çok su alır?

A) eşit alırlar B) kaşık C) şişe

2. 7 + 5 işleminin sonucu kaçtır?

A) 12 B) 11 C) 13

2 Kapları en az alandan en çok alana sırala (1 en az).



Soruyu cevaplayınız.

1. Hangisi daha çok su alır?

A) sürahi B) çay bardağı

C) eşit alırlar

Kaplarla Ölçelim

1 Tabloyu inceleyiniz.

Kap	Aldığı su
sürahi	6 bardak
kova	12 bardak
şişe	4 bardak
bardak	10 kaşık

2 Tabloya göre cevaplayınız.

1. Kova, sürahiden kaç bardak fazla alır? 6
2. 2 sürahi kaç bardak eder? 12
3. Şişe ile sürahi toplam kaç bardak alır? 10

Soruyu cevaplayınız.

1. Hangisi daha çok su alır?
   A) kova B) küvet C) eşit alırlar

3 Soruları cevaplayınız.

1. En çok su hangi kaba sığar?
   A) şişe B) sürahi C) kova
2. Bir kovayı doldurmak için kaç sürahi gerekir?
   A) 6 B) 2 C) 3
3. Bardak kaç kaşık su alır?
   A) 10 B) 4 C) 6
4. Hangisi daha çok su alır?
   A) kova B) bardak C) eşit alırlar
5. 4 + 6 işleminin sonucu kaçtır?
   A) 9 B) 11 C) 10
6. 12 – 5 işleminin sonucu kaçtır?
   A) 7 B) 8 C) 6
7. 18 – 8 işleminin sonucu kaçtır?
   A) 10 B) 9 C) 11

Evde Ölçme Deneyi

1 Bir ailen büyüğüyle sürahini bardakla doldur. Kaç bardak su aldığını yaz.

1. Sürahimiz (ölçüme göre) bardak su aldı.

2 Bir bardağı kaşıkla doldur. Kaç kaşık su aldı?

1. Bardağımız (ölçüme göre) kaşık su aldı.

3 Ölçümünü resimle anlat.

4 Doğru ise D, yanlış ise Y yazınız.

Y Kaşık, kovadan çok su alır.

D Farklı birimlerle ölçünce sonuçlar değişebilir.

D Büyük kap daha çok sıvı alır.

5 Soruları cevaplayınız.

1. Hangisi en az su alır?
(A) kaşık B) bardak C) kova

2. Bir sürahi 5 bardak su alıyor. 3 sürahi kaç bardak alır?
(A) 15 B) 20 C) 8

3. 12 – 3 işleminin sonucu kaçtır?
A) 10 B) 8 (C) 9

İkişer ileri sayınız.

1. 10, 12, 14, 16

Ne Kadar Dolu?

1 Kaplardaki su çizgisine bak. En dolu olana ✓ koy.

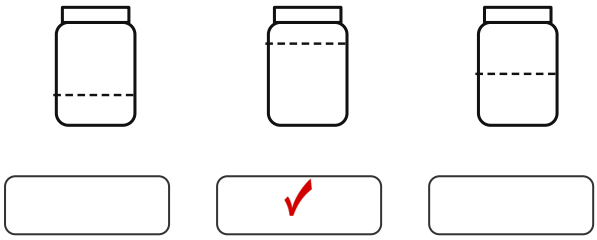

2 Kapları en boştan en doluya sırala.

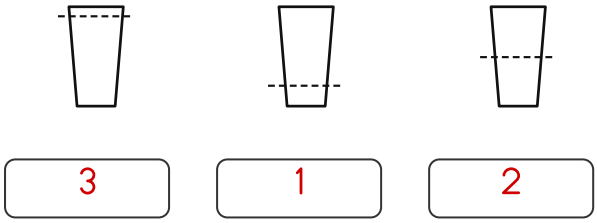

Soruyu cevaplayınız.

1. Bir şişe 4 bardak su alıyor. 2 şişe kaç bardak alır?

A) 12 B) 6 C) 8

2. 3 + 7 işleminin sonucu kaçtır?

A) 10 B) 9 C) 11

3. 6 + 1 işleminin sonucu kaçtır?

A) 6 B) 7 C) 8

3 Boş bardağa yarısına kadar su çiz.



4 Soruları cevaplayınız.

1. Yarısına kadar dolu bardakta ne kadar boşluk vardır?

A) yarısı B) tamamı C) hiç

2. Bir kova 10 bardak su alıyor. 2 kova kaç bardak alır?

A) 12 B) 30 C) 20

İkişer ileri sayınız.

1. 6, 8, 10, 12

Soruyu cevaplayınız.

1. 15 − 2 işleminin sonucu kaçtır?

A) 13 B) 14 C) 12

Limonata Günü

Sınıfça limonata yaptık. Bir sürahi limonata 5 bardağı dolduruyor. Sınıfta 20 öğrenci var ve herkes bir bardak içecek.

① Kaç sürahi limonata gerekir? Bul.

1. Cevap: 4 sürahi

Soruyu cevaplayınız.

1. Bir termos 3 bardak su alıyor. 3 termos kaç bardak alır?
   A) 6 B) 9 C) 12
2. 12 − 7 işleminin sonucu kaçtır?
   A) 5 B) 4 C) 6
3. 7 + 3 işleminin sonucu kaçtır?
   A) 10 B) 11 C) 9
4. 8 + 5 işleminin sonucu kaçtır?
   A) 14 B) 13 C) 12

② Soruları cevaplayınız.

1. 2 sürahi limonata kaç bardağı doldurur?
   A) 10 B) 5 C) 7
2. 3 sürahi ile kaç öğrenciye limonata verilir?
   A) 20 B) 15 C) 10
3. Öğretmen de içerse kaç bardak gerekir?
   A) 25 B) 20 C) 21
4. Hangisi en çok su alır?
   A) bardak B) kaşık C) küvet
5. 8 + 8 işleminin sonucu kaçtır?
   A) 15 B) 16 C) 17

Adı Soyadı: .....

Matematik Haftanın Testi

Doğru cevabın harfini yuvarlak içine alınız.

Her soru 1 puan

1. Hangisi en çok su alır?

(A) kova B) kaşık C) bardak

2. Hangisi sıvı ölçmek için kullanılmaz?

A) sürahi (B) cetvel C) bardak

3. Sürahi 6 bardak alıyor. 2 sürahi kaç bardak?

(A) 12 B) 8 C) 10

4. Hangisi en az su alır?

(A) kaşık B) kova C) şişe

9. Hangisi en az su alır?

(A) çay kaşığı B) sürahi C) kova

10. 9 + 4 işleminin sonucu kaçtır?

A) 14 B) 12 (C) 13

11. 8 + 9 işleminin sonucu kaçtır?

A) 18 (B) 17 C) 16

5. Kova 12, sürahi 6 bardak alıyor. Fark kaç bardak?

A) 18 B) 4 (C) 6

6. Yarısı dolu kapta ne kadar boşluk var?

A) tamamı

B) hiç yok

(C) yarısı kadar

7. Aynı kabı farklı birimlerle ölçünce ne olur?

A) Sonuç hep aynıdır.

(B) Sonuçlar farklı çıkar.

C) Ölçülemez.

8. Bir bardak 10 kaşık su alıyor. 2 bardak kaç kaşık?

A) 12 (B) 20 C) 30

Puanım: ☐☐☐☐☐☐☐☐☐☐

(doğru sayısı kadar kutu boya)

Karar Veriyorum

Hatırla! Karar verirken: 1. Seçenekleri düşünürüz. 2. Her seçeneğin sonucunu tahmin ederiz. 3. En uygun olanı seçeriz. Gerekirse büyüklerimize danışırız.

1 Durumu oku, seçenekleri ve sonuçlarını yaz.

Teneffüs bitti. Arkadaşın oyuna devam etmek istiyor.

Seçenek	Sonucu
Oyuna devam ederim.	Derse geç kalırım.
Sınıfa dönerim.	Derse zamanında girerim.

Doğru ise D, yanlış ise Y yazınız.

D Karar vermeden önce düşünürüm.

D Önemli kararları büyüklerime danışırım.

Harçlığını biriktirirsen ne alırsın?

2 Senin kararın ne olurdu? Neden?

Sınıfa dönerdim çünkü ders başlıyor.

3 Soruları cevaplayınız.

1. Karar verirken önce ne yaparız?

A) Seçenekleri düşünürüz.

B) Hemen seçeriz. C) Ağlarız.

Kime Danışırım?

1 Hangi konuda kime danışırsın? Eşleştir.

a	Ödevimi anlamadım.	a) öğretmenime
d	Hastayım.	b) aileme
b	Hangi kitabı alayım?	c) polise
c	Kayboldum.	d) doktora

Doğru ise D, yanlış ise Y yazınız.

Y Her istediğimi hemen almalıyım.

D Kararlarımın sonuçlarını düşünürüm.

Zor bir kararda kime danışırsın?

2 Son verdiğin bir kararı ve sonucunu yaz.

3 Doğru ise D, yanlış ise Y yazınız.

D Önemli kararları büyüklerimize danışırız.

D Her kararın bir sonucu vardır.

Adı Soyadı: .....

Doğru Seçim

1 Doğru seçime ✓ koy.

- [x] Ödevimi yapmadan oyuna çıkarım.
- [✓] Yatmadan önce dişlerimi fırçalarım.
- [✓] Sağlıklı atıştırmalık seçerim.
- [x] Yabancının arabasına binerim.

Doğru ise D, yanlış ise Y yazınız.

- [D] Para biriktirmek bilinçli bir seçimdir.
- [Y] İhtiyaç ile istek aynı şeydir.

Yanlış bir karar verdiğinde ne yaparsın?

2 Harçlığınla ne alırdın? Seçeneklerini düşün, kararını yaz.

Hayat Bilgisi Haftanın Testi

Doğru cevabın harfini yuvarlak içine alınız. Her soru 1 puan

1. Karar verirken ne yaparız?

A) Hemen seçeriz.

B) Hiç düşünmeyiz.

(C) Seçenekleri düşünürüz.

2. Ödevimi anlamazsam kime danışırım?

A) kimseye (B) öğretmenime C) yabancıya

3. Her kararın neyi vardır?

(A) sonucu B) sesi C) rengi

4. Hangisi doğru bir karardır?

A) Geç yatmak

(B) Ödevden sonra oyun oynamak

C) Hiç ödev yapmamak

Bugün verdiğin bir kararı yaz.

5. Kayboldum, kime giderim?

(A) polise B) hiç kimseye C) yabancıya

6. Zor bir karar verirken ne yaparız?

(A) Büyüklerimize danışırız.

B) Kendimizi üzeriz.

C) Kaçarız.

7. Hangisi sağlıklı bir seçimdir?

A) çok şeker yemek B) su içmemek (C) meyve yemek

8. Yanlış karar verdiysek ne yaparız?

A) Saklarız.

(B) Hatamızdan ders alırız.

C) Başkasını suçlarız.

Puanım: ☐☐☐☐☐☐☐☐ (doğru sayısı kadar kutu boya)

Adı Soyadı: .....

Dünya Gıda Günü

16 Ekim Dünya Gıda Günü'dür. Besinleri israf etmemek, tabağımıza yiyeceğimiz kadar yemek almak ve ekmeği çöpe atmamak çok önemlidir.

1 Yemek israfını önlemek için neler yaparsın?

Tabağıma yiyeceğim kadar alırım.

2 Bayat ekmekten neler yapılabilir? Ailene sor.

Ekmek kızartması, köfte ...

3 Tabağını doğru miktarda yemekle doldurarak çiz.

Adı Soyadı: .....

Şifreli Mesaj

1 İşlemleri yap. Sonucun harfini tablodan bul, kutuya yaz. Gizli mesajı oku!

3	4	5	6	7	8	9
N	S	T	U	Z	Ö	Ü

1+3	4+4	2+5	2+7	2+1	4+5		4+1	2+4	2+3
S	Ö	Z	Ü	N	Ü		T	U	T

2 Gizli mesajı yaz.

1. Mesaj: SÖZÜNÜ TUT

3 Bu hafta en çok neyi sevdin?

4 Kendimi değerlendiriyorum.

	😀	🙂	😐
Zıt anlamlı sözcükleri bilirim.	☐	☐	☐
Olayları sıralarım.	☐	☐	☐
Sıvıları kaplarla ölçerim.	☐	☐	☐
Karar verirken seçenekleri düşünürüm.	☐	☐	☐

Gizli mesajı bir cümlede kullan.